PROPÓSITO:

TALLER 1

PRACTICAS MATEMATICAS

Identifica cuales son los números pares e impares y practica por medio de los ejercicios planteados en el siguiente taller.

MOTIVACIÓN:

Los números pares, se llaman así porque se pueden agrupar en pares de dos en dos

EXPLICACIÓN:

- Los números pares son el 0, 2, 4, 6, 8 y los que terminan en dichos números
- Los números impares son el 1, 3, 5, 7, 9 y los que terminan en dicho números.

EJERCICIOS:

ACTIVIDAD 1

Elige si cada uno de los jugadores tiene en su camiseta un numero

PAR o IMPAR

ACTIVIDAD 2

Escribe dentro de cada frasco los números que correspondan al grupo de los impares o pares.

PARES E IMPARES

2	3	6	9
12	22	1	16
4	10	8	15
5	7	13	11



ACTIVIDAD 3

Cuenta los caramelos y escribe si están agrupados en par o impar.

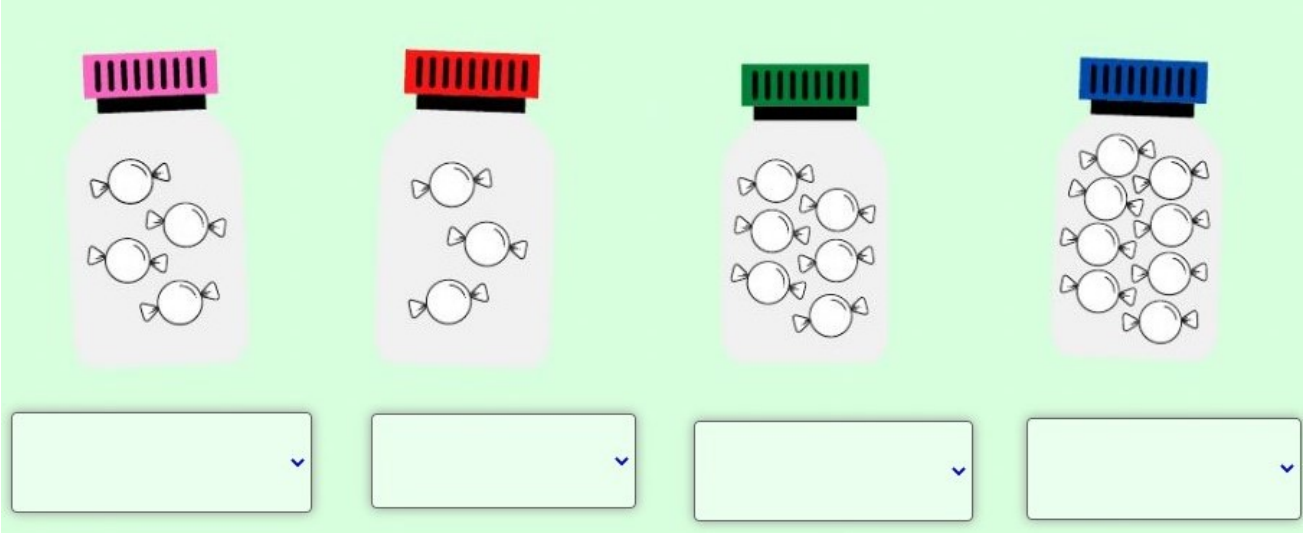

ACTIVIDAD 4

Selecciona las velas que están agrupadas en impares.

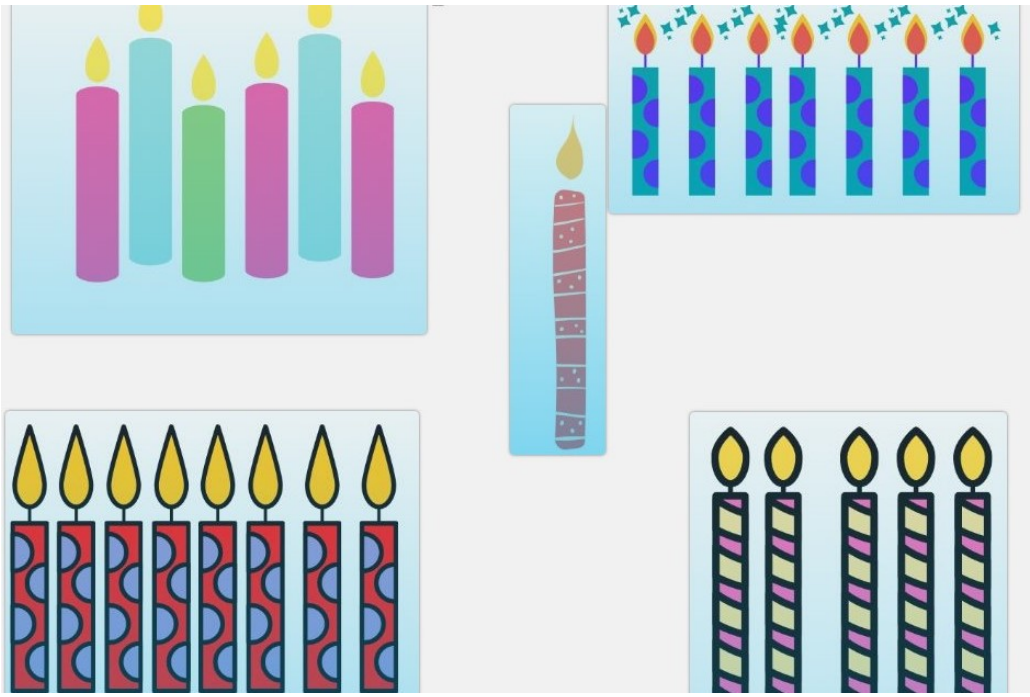

EVALUACIÓN:

La participación, el desarrollo y el cumplimiento en la entrega de el taller, serán fundamentales en el valor de la calificación.

BIBLIOGRAFÍA: