**PROPÓSITO:**

Taller # 2

Que los niños se familiaricen con las pruebas aplicadas por el estado para medir los desempeños de los estudiantes.

**MOTIVACIÓN:**



**EXPLICACIÓN:**

En cada enunciado encontrara una pregunta con cuatro opciones de respuesta de las cuales solo una es correcta, se debe leer , analizar que están preguntado, si es necesario realizar operaciones y marcar en la hoja de respuestas.

**EJERCICIOS:**

Pregunta # 6

En clase de educación física se preguntó sobre el deporte favorito de los estudiantes de cuarto para determinar las próximas prácticas. Observa los resultados en el siguiente diagrama:

El diagrama circular que representa la información anterior es:

Pregunta # 7

En 4 cursos se preguntó por la edad de los estudiantes. Observa los resultados:
¿En cuál curso hay más estudiantes con edad mayor a 7 años?

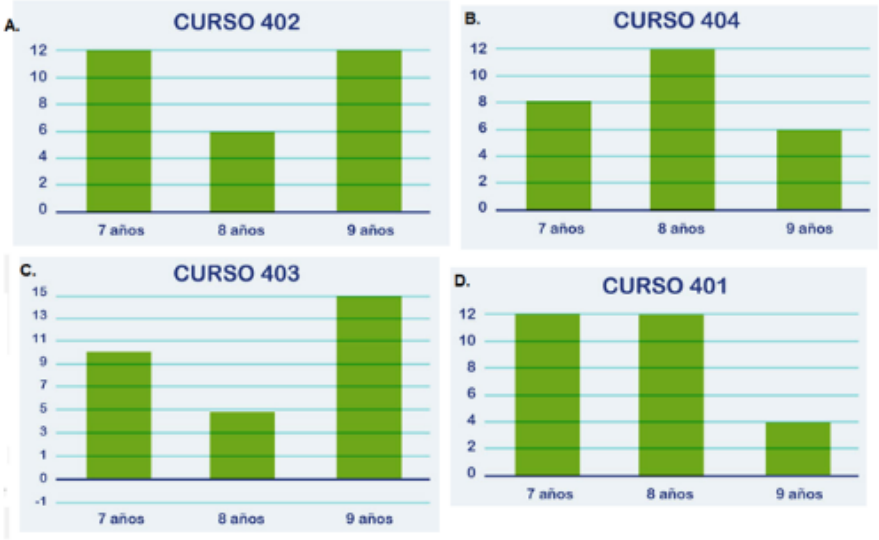


Pregunta # 8

En clase de geometría está puesta la siguiente actividad:

¿Cuál rectángulo cumple con la condición de la actividad del tablero?

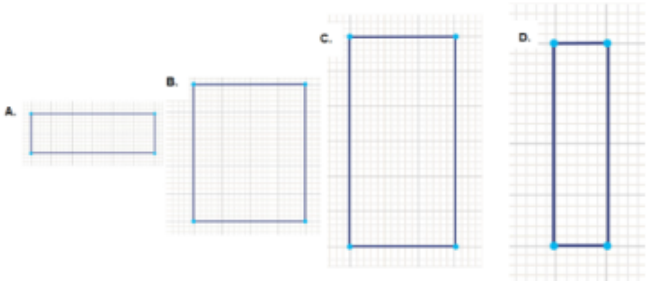


Pregunta # 9

Observa la figura que tiene Carlos en su cuaderno de geometría y las unidades que ha utilizado para medir la superficie (unidad cuadrada) y el perímetro (unidad) de su figura.

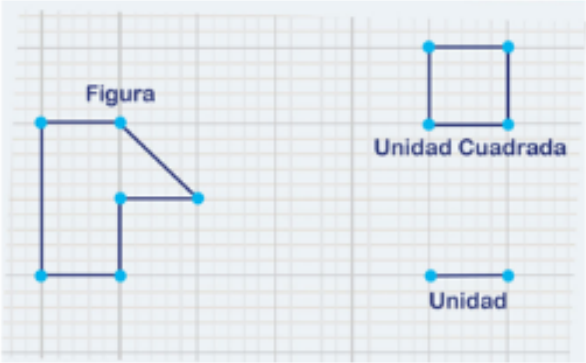


Sobre el área y perímetro de la figura Carlos y Carla pueden afirmar correctamente que:

**EVALUACIÓN:**

Los talleres de prueba saber son formativos recuerden se tendrá en cuenta presentación del trabajo, puntualidad , responsabilidad.

Enviar solo una foto durante el desarrollo de la clase realizando el trabajo por niño con los datos, con esta se verifica la asistencia a la actividad.

Enviar las evidencias del taller completo el día estipulado y al WhatsApp de la profesora no al grupo.

**BIBLIOGRAFÍA:**

Pruebas saber aplicadas en años anteriores.