PROPÓSITO:

J.U PRACTICAS MATEMATICAS

TALLER 12

MOTIVACIÓN:

2. Realice las siguientes operaciones:

a) 15 + 23 =

b) 33-16 =

c) 12 x 5 =

d) 58 + 25 =

e) 55 – 22 =

f) 11 x 8 =

EXPLICACIÓN:

- REALIZA LAS ACTIVIDADES EN LA CARTILLA
- ESCRIBE TU NOMBRE COMPLETO EN LA PARTE SUPERIOR DE CADA HOJA
- TOMA LA FOTO Y ENVIA TU EVIENCIA A TIEMPO
- DIVIERTETE Y APRENDE

EJERCICIOS:

5. ¿Hacia dónde apunta la flecha?

Arriba /Abajo /Derecha / Izquierda

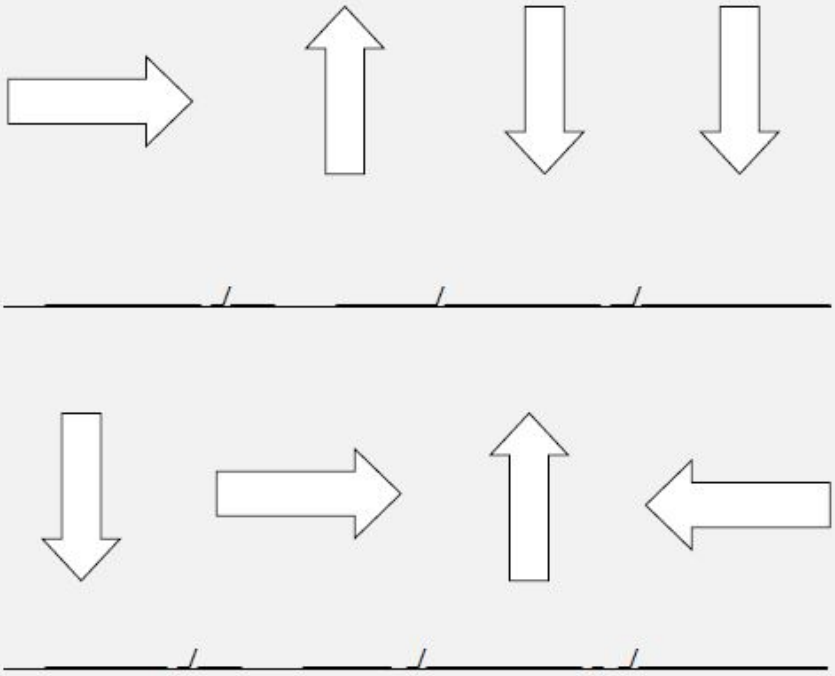

¿Cuál es la pieza que falta para completar el puzle?



5. Copie los símbolos correspondientes a cada letra:

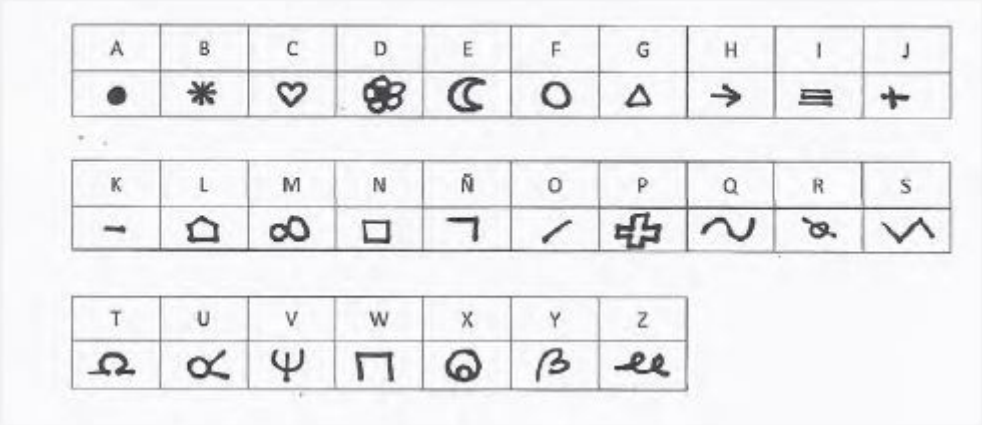

E S T R E L L A

_____

C U A D E R N O

_____

M U N D O

_____

E U R O P A

_____

EVALUACIÓN:

2. Tache todos los símbolos que sean iguales al siguiente: Ó

ÓÒÓÖÓÔÕÓÖÓÔÓÖÓÒÕÒÒÔÒÕÓÖÒÔÕÔÓÕ
ÔÔÕÓÕÖÓÓÕÓÕÖÕÕÒÕÖÒÖÓÓÖÒÖÕÖÔÓÖ
ÖÔÖÓÕÓÕÕÒÕÕÓÔÔÕÔÓÔÔÓÔÕÓÓÔÓÒÒ
ÕÒÓÓÔÒÕÒÓÔÖÒÓÓÒÖÒÓÖÒÖÔÓÖÖÒÖÓÓ

3. ¡Viajando entre las estrellas! Encuentre y rodee todas las estrellas que tengan 5 puntas.



¿Cuántas hay? _____

BIBLIOGRAFÍA:

ESTIMULACION COGNITIVA