PROPÓSITO:

Reconocer la división como operación inversa de la multiplicación, y viceversa.

TALLER 11

LA DIVISION

MOTIVACIÓN:

EXPLICACIÓN:

1. Reparte 8 fichas en 4 grupos con la misma cantidad de fichas en cada uno.

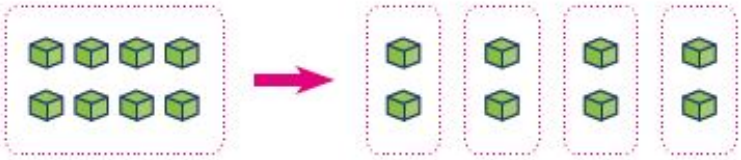

En cada uno de los 4 grupos quedan ____ fichas.

2. Reparte 8 fichas en 2 grupos con la misma cantidad de fichas en cada uno.



En cada uno de los 2 grupos quedan ____ fichas.

EJERCICIOS:

2 Observa y completa.

a)

Hay ____ grupos.

En cada grupo hay ____ manzanas.

En total hay ____ manzanas.

b)



Hay ____ grupos.

En cada grupo hay ____ manzanas.

En total hay ____ manzanas.

Resta una y otra vez para resolver cada problema.

a) Santiago tiene 16 fotos.
El pegó 4 fotos en cada página de su álbum.

¿Cuántas páginas llenó?

Santiago llenó

[ ] páginas.

16	−	4	=	12
	−	4	=	
	−	4	=	
	−	4	=	

b) Juana tiene 12 láminas del álbum del mundial.
Le da 3 a cada persona.

¿Cuántas personas reciben láminas?

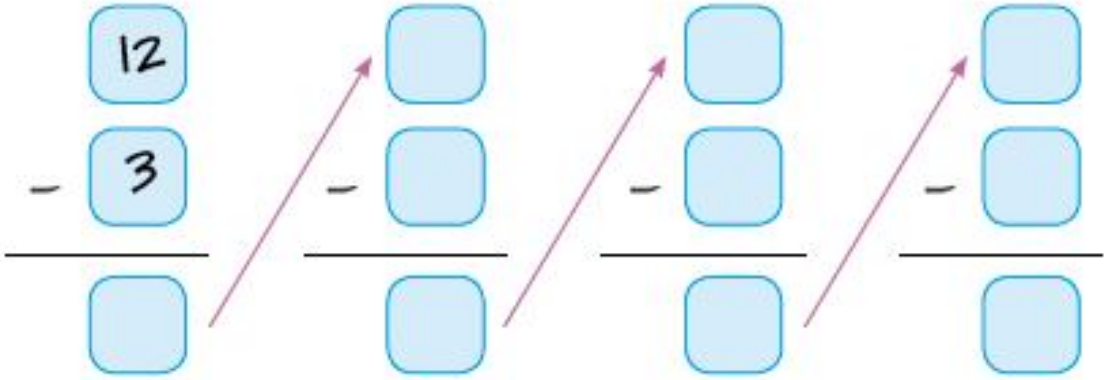

[ ] personas reciben láminas.

Hay 15 personas en total que viajan en las avionetas.

En cada una viaja el mismo número de personas. ¿Cuántas personas viajan en cada avioneta?

_____ ÷ _____ = _____

_____ personas viajan en cada avioneta.

La tercera parte de _____ es _____ .

Completa cada familia de operaciones.

a)



4 × ____ = 20

20 ÷ ____ = 5

5 × ____ = 20

20 ÷ ____ = 4

b)

____ × ____ = ____

____ ÷ ____ = ____

____ × ____ = ____

____ ÷ ____ = ____

Usa fichas para completar cada tabla.

a)

Número de gatos	Número de orejas
1	
2	4
	6
	8
5	

b)

Número de triciclos	Número de ruedas
1	
2	
	9
	12
5	

c)

Número de caballos	Número de patas
1	
	12
5	
	28
9	

d)

Número de manos	Número de dedos
	5
2	
3	
	20
	25

EVALUACIÓN:

Ana María tiene 8 cajas con 10 botellas en cada una.

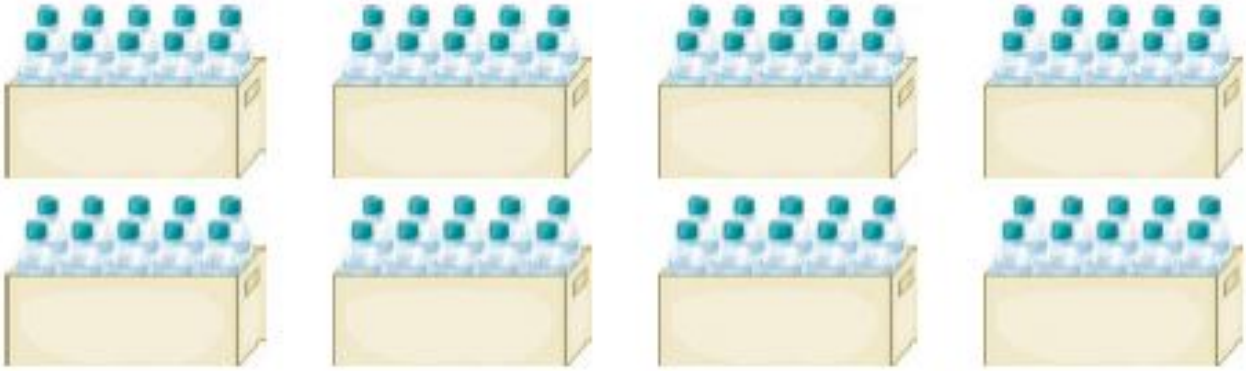

Ella tiene en total: ____ x ____ = ____ botellas.

Ana María quiere repartir todas las botellas en cajas donde solo caben 6.

- ¿Cuántas cajas necesita? _____
- ¿Cuántas botellas le quedan sin repartir? _____

Jorge tiene 5 cajas con 15 crayones cada una.

Jorge tiene en total: ____ x ____ = ____ crayones.

Jorge quiere repartir en partes iguales todos los crayones entre 6 niños.

- ¿Cuántos crayones le corresponde a cada niño? _____
- ¿Cuántos crayones le quedan sin repartir? _____

Lee y resuelve.

a) Mario tiene 40 lápices. Él hace grupos con 5 lápices en cada uno.

¿Cuántos grupos puede armar?



Mario puede armar ____ grupos.

b) Pablo compró 134 ruedas para construir carritos.



Pablo puede construir ____ carritos.

A Pablo le sobran ____ ruedas.

c) En la tienda donde compra Jorge hay 654 bolsas de refrescos, empacadas en grupos de 6.

¿Cuántos paquetes hay en total?

En total hay ____ bolsas de refrescos.

BIBLIOGRAFÍA:

DESCUBRE MATEMATICAS MEN PTA