PROPÓSITO:

Practicar y reforzar lo aprendido durante el año escolar, en cuanto a operaciones matemáticas y escritura de los números.

MOTIVACIÓN:



EXPLICACIÓN:

Las matemáticas son fundamentales **para** el desarrollo intelectual **de** los **niños**, les ayuda a ser lógicos, a razonar ordenadamente y a tener una mente preparada **para** el pensamiento, la crítica **y** la abstracción.

EJERCICIOS:

1.Marca con una X la casilla con el numero que corresponde el resultado de las operaciones.

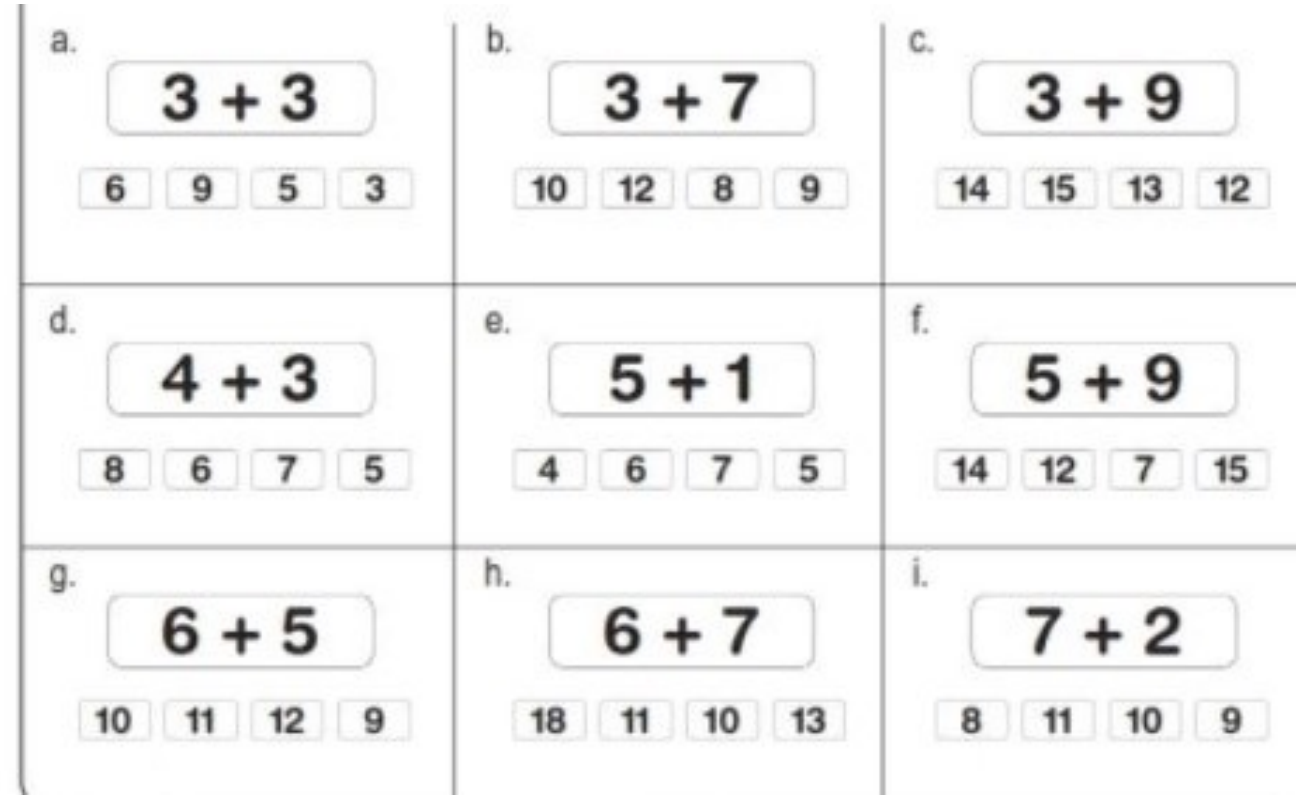

2.Selecciona con unaX el numero que representa de manera correcta el numero expresado en cada frase.

¿Qué número es el quinientos veinte?

680 220 456 520

¿Qué número es el ciento cincuenta?

964 583 150 439

¿Qué número es el doscientos trinta y ocho?

456 238 938 672

¿Qué número es el ochocientos dos?

208 820 802 280

¿Qué número es el setecientos setenta y cuatro?

474 774 704 407

¿Qué número es el doscientos doce?

121 112 212 221

3.Marca con una X la respuesta correcta.

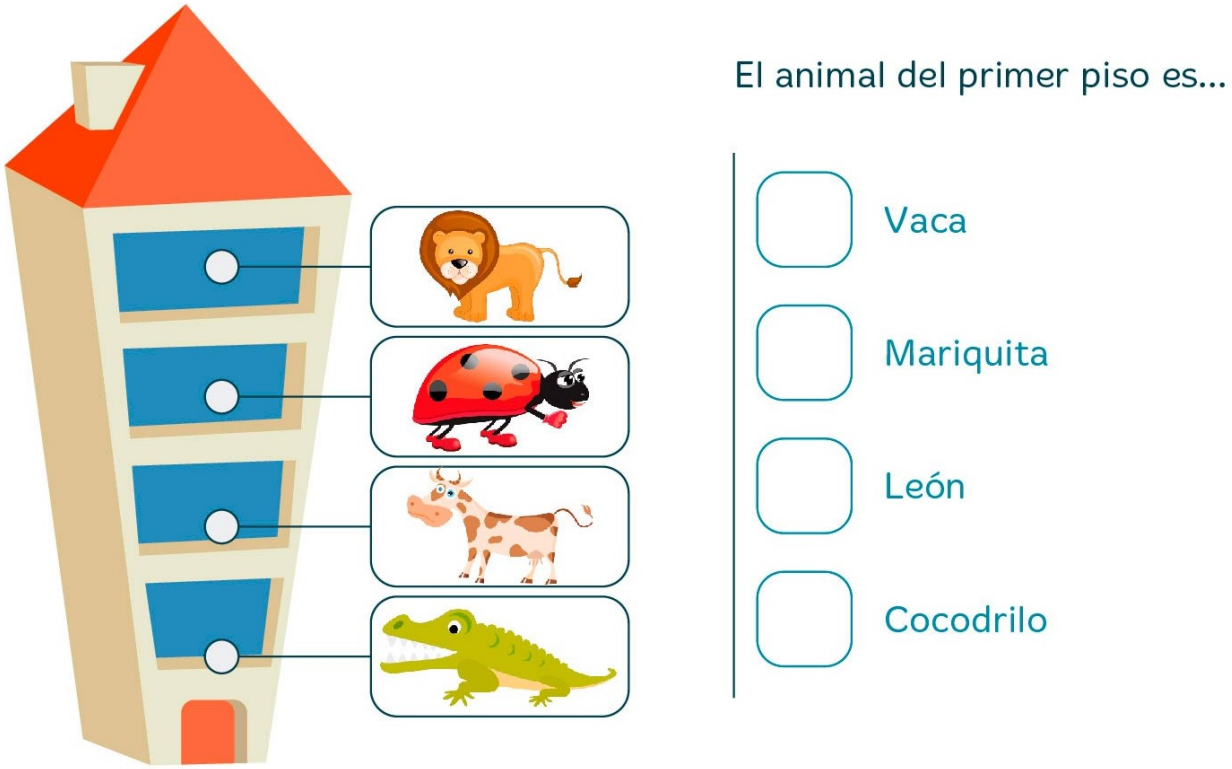

4.Que numero es mayor y que numero es menor, responde según corresponda.

¿Qué número es mayor que 88?

79 80 87 76 98

¿Qué número es menor que 34?

85 22 92 35 40

¿Qué número es mayor que 11?

5 8 10 7 12

¿Qué número es mayor que 63?

31 60 36 83 15

¿Qué número es menor que 77?

79 80 95 76 70

¿Qué número es mayor que 39?

33 18 25 46 12

5.Escribe el número de unidades correspondientes en cada cuadro.

- 4 decenas
- 7 decenas
- 3 millares
- 6 millares
- 2 unidades
- 2 centenas
- 6 centenas
- 4 unidades

6.Resuelve el siguiente crucigrama de operaciones.



7.Contesto las siguientes preguntas.

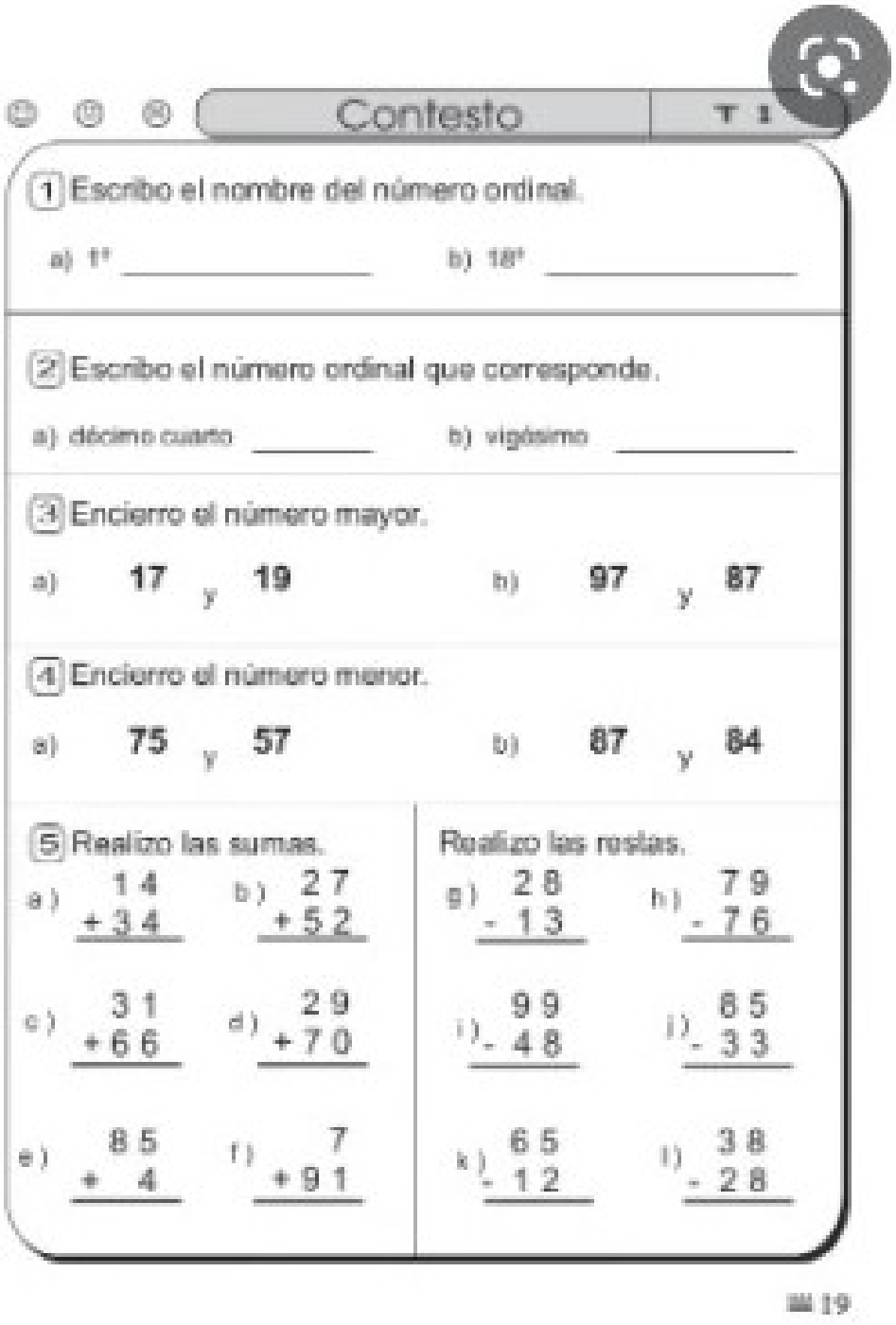

Contesto

1 Escribo el nombre del número ordinal.

a) 1° _____ b) 18° _____

2 Escribo el número ordinal que corresponde.

a) décimo cuarto _____ b) vigésimo _____

3 Encierro el número mayor.

a) **17** y **19** b) **97** y **87**

4 Encierro el número menor.

a) **75** y **57** b) **87** y **84**

5 Realizo las sumas.

a) 14 + 34 b) 27 + 52

c) 31 + 66 d) 29 + 70

e) 85 + 4 f) 7 + 91

Realizo las restas.

g) 28 - 13 h) 79 - 76

i) 99 - 48 j) 85 - 33

k) 65 - 12 l) 38 - 28

19

8.Completa la información faltante en este problema.

A este problema le falta la pregunta. Rodea la más adecuada y resuelve el problema

En una granja hay un total de 950 animales, entre vacas, conejos y gallinas. Hay 324 conejos y 418 vacas.

1. ¿Cuántas vacas hay en la granja?
2. ¿Cuántos sacos de comida hacen falta para alimentarlos?
3. ¿Cuántas gallinas hay en la granja?
4. ¿Cuántos animales hay en total?



Datos	Operaciones y Resultado

Completa la serie

	−5	−4	−3	−2	−2	−5	−4	
325								300

EVALUACIÓN:

El desarrollo de las guias, la puntualidad en la entrega de las mismas y la participacion en las clases

seran fundamentales al momento de evaluar.

BIBLIOGRAFÍA: